ТРУДНЫЕ ЛИ ВОПРОСЫ ОГЭ ПО ГЕОГРАФИИ?

учитель географии МБОУ «Гимназия №1 им. Н. М. Пржевальского»

региональный методист

Тарасевич ДИ

ИЗМЕНЕНИЯ В ОГЭ ПО ГЕОГРАФИИ

Изменения

- 150 минут (2,5 часа)
- Мини-текст из трех заданий 27 – 29

Изменения

- Максимальный балл 31 (был 32)
- 30 заданий в КИМ

изменения

- 27 заданий с кратким ответом, 3 задания – с развернутым
- 12 задание – за полное решение выставляется 2 балла

КАРТА – 50% УСПЕХА

1 Российские морские офицеры Дмитрий и Харитон Лаптевы сделали значительный вклад в географическую науку, нанесли на карту ряд географических объектов. Какой из перечисленных географических объектов назван в их честь?

1) полуостров
2) остров
3) море
4) хребет

Ответ: ☐

1 Михаил Петрович Лазарев – русский мореплаватель. 28 января 1820 г. на шлюпах «Восток» (под командованием Ф.Ф. Беллинсгаузена) и «Мирный» (под командованием М.П. Лазарева) российские моряки первыми достигли берегов Антарктиды. Какой из перечисленных географических объектов в Антарктике носит имя М.П. Лазарева?

1) течение
2) пролив
3) море
4) полуостров

Ответ: ☐

Научиться пользоваться картой. Например, «Указатель географических названий»







ПЛАН МЕСТНОСТИ

Определите по карте расстояние на местности по прямой от родника до пункта государственной геодезической сети. Измерение проводите между центрами условных знаков. Полученный результат округлите до десятков метров. Ответ запишите в виде числа.

Ответ: _____ м.

Определите по карте, в каком направлении от башни находится геодезический знак.

Ответ: _____.

Задания 9–12 выполняются с использованием приведённого ниже фрагмента топографической карты.

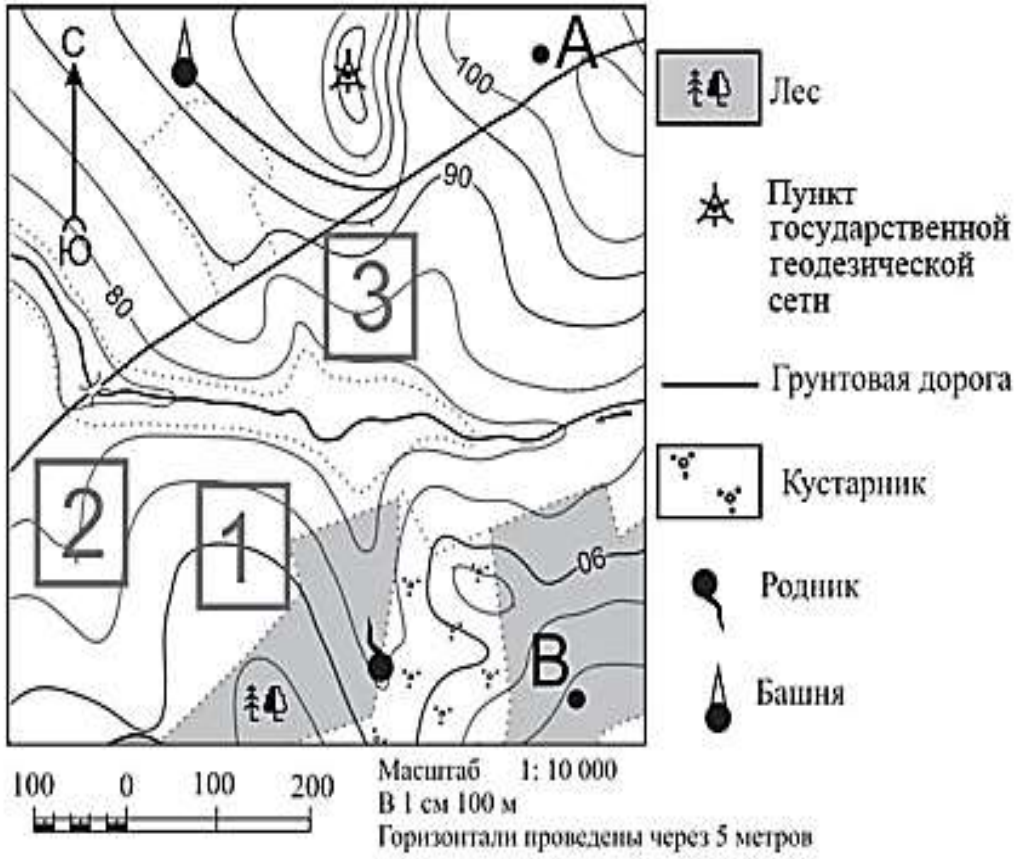

ПЛАН МЕСТНОСТИ

Определите по карте расстояние на местности по прямой от родника до пункта государственной геодезической сети. Измерение проводите между центрами условных знаков. Полученный результат округлите до десятков метров. Ответ запишите в виде числа.

Ответ: _____ м.

Определите по карте, в каком направлении от башни находится геодезический знак.

Ответ: _____.

Задания 9–12 выполняются с использованием приведённого ниже фрагмента топографической карты.

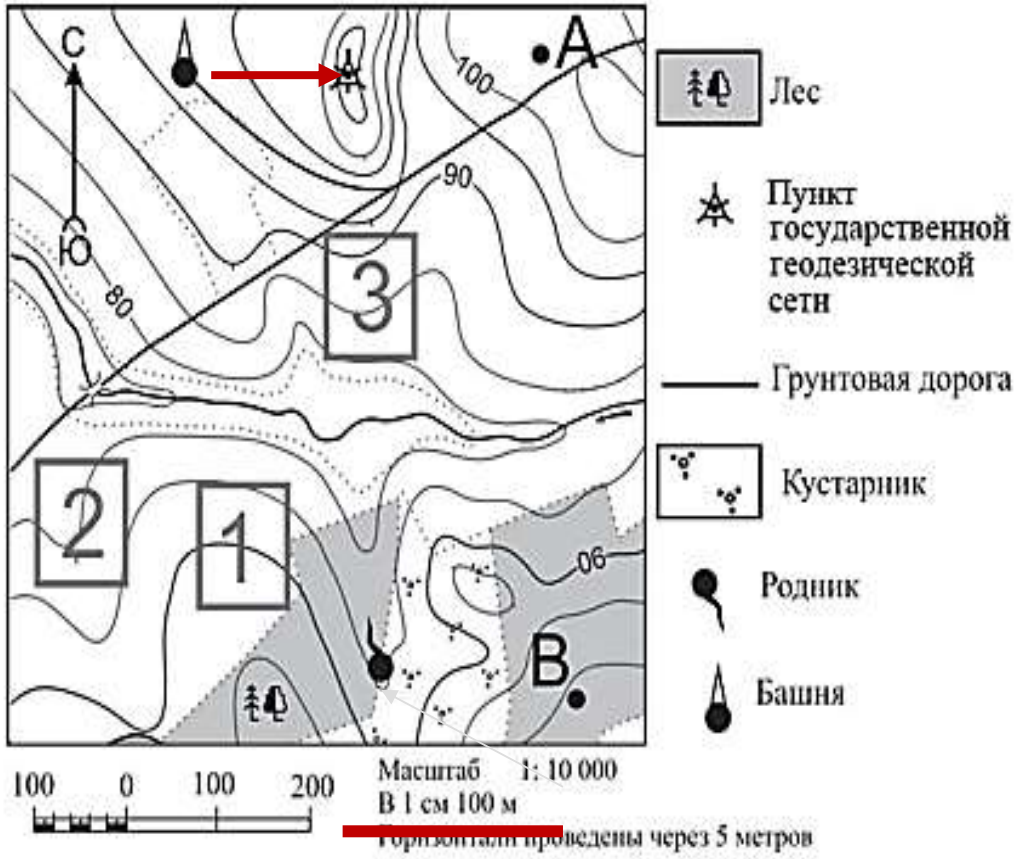

ПЛАН МЕСТНОСТИ

11 На рисунках представлены варианты профиля рельефа местности, построенные на основе карты по линии А – В разными учащимися. Какой из профилей построен верно?

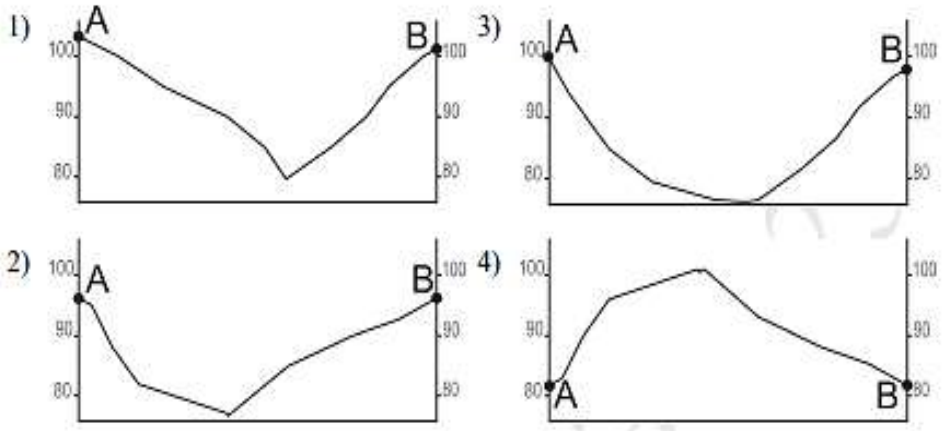

Ответ:

Задания 9–12 выполняются с использованием приведённого ниже фрагмента топографической карты.

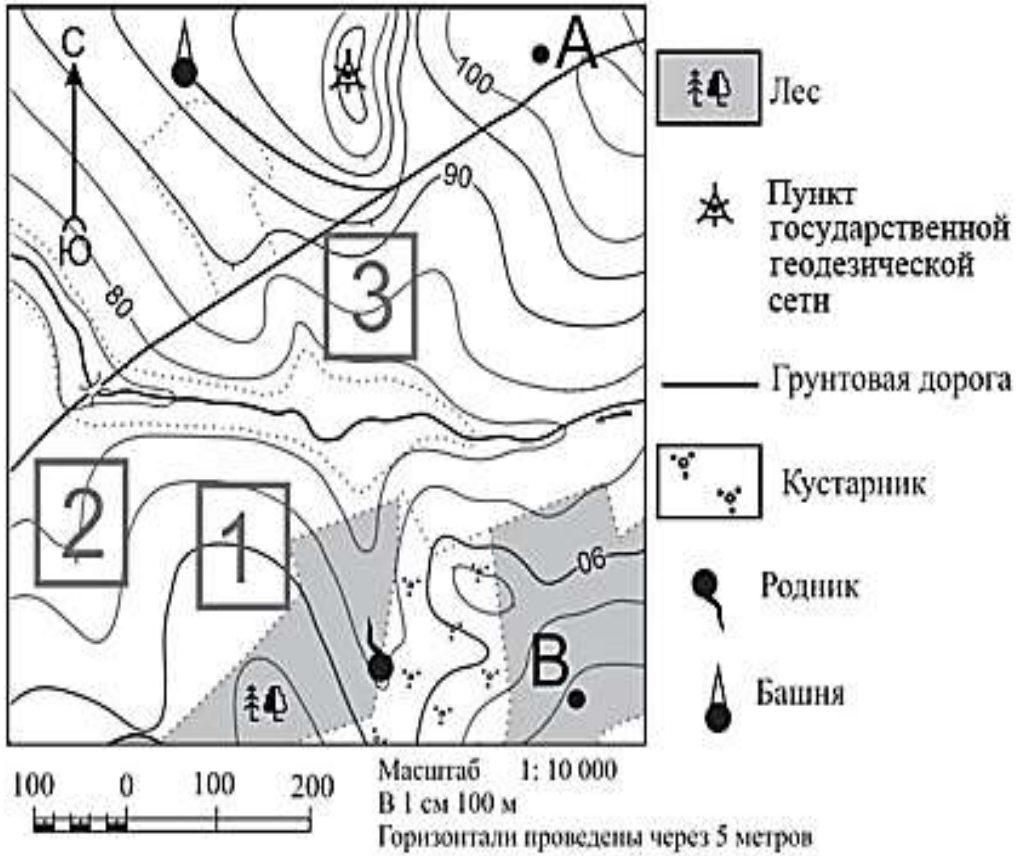

ПЛАН МЕСТНОСТИ

11 На рисунках представлены варианты профиля рельефа местности, построенные на основе карты по линии А – В разными учащимися. Какой из профилей построен верно?

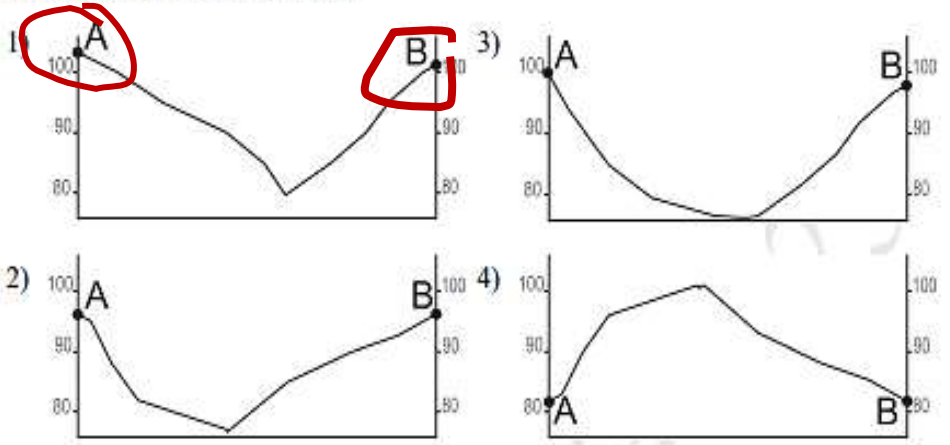

Ответ:

Задания 9–12 выполняются с использованием приведённого ниже фрагмента топографической карты.

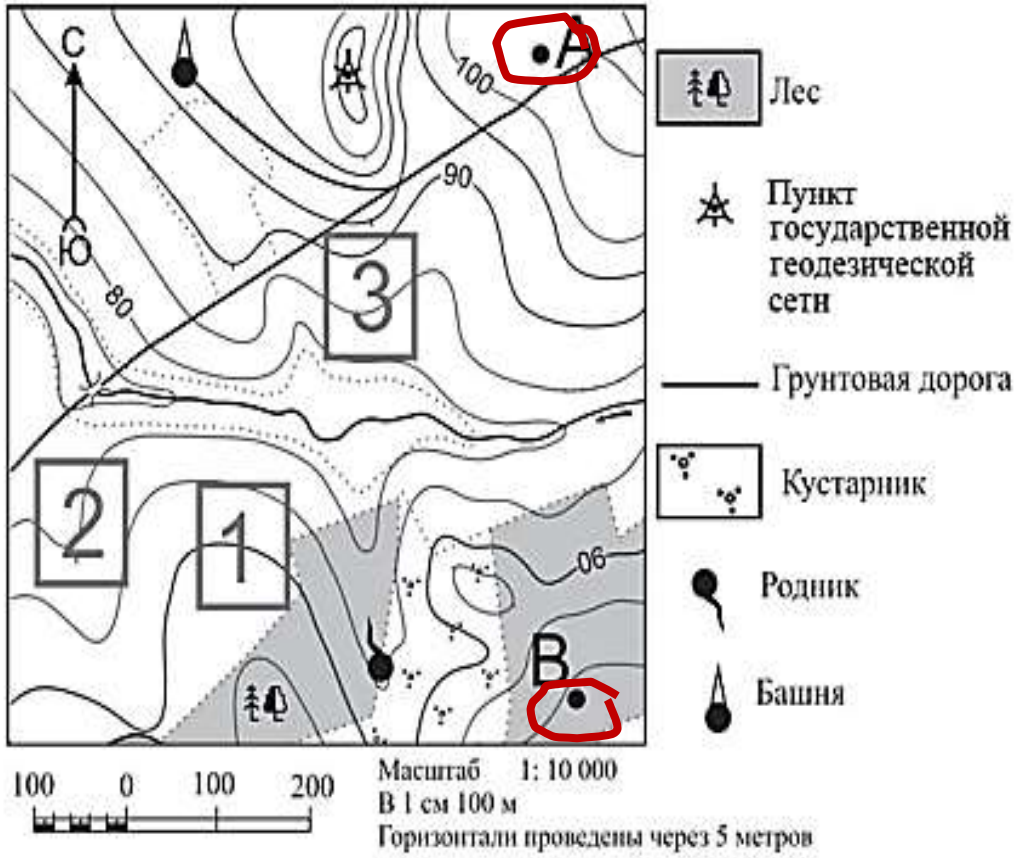

ПЛАН МЕСТНОСТИ

Фермер выбирает участок для закладки нового фруктового сада. Ему нужен участок, на котором весной рано сходит снег, а летом почва лучше всего прогревается солнцем. Он также должен иметь расположение, удобное для вывоза собранного урожая на консервный завод. Определите, какой из участков, обозначенных на карте цифрами 1, 2 и 3, больше всего отвечает указанным требованиям. Для обоснования Вашего ответа приведите два довода.

Ответ запишите на бланке ответов № 2, указав сначала номер задания.

Задания 9–12 выполняются с использованием приведённого ниже фрагмента топографической карты.

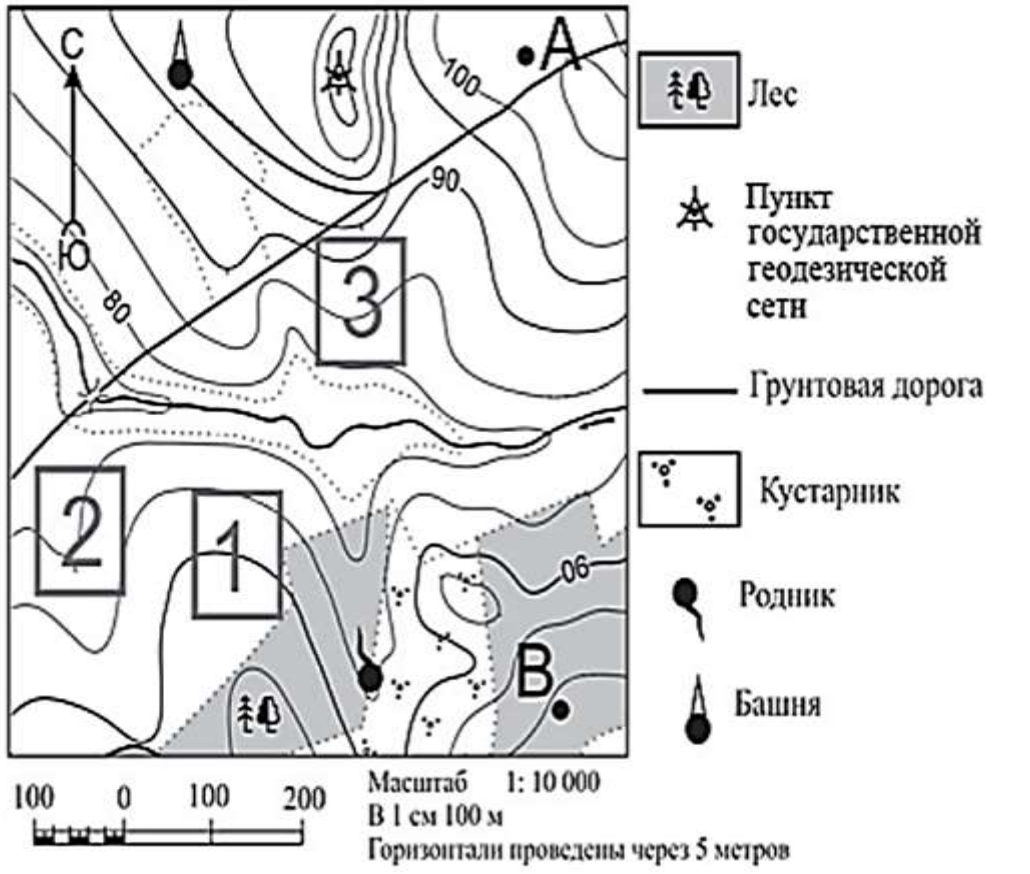

ПЛАН МЕСТНОСТИ

Фермер выбирает участок для закладки нового фруктового сада. Ему нужен участок, на котором весной рано сходит снег, а летом почва лучше всего прогревается солнцем. Он также должен иметь расположение, удобное для вывоза собранного урожая на консервный завод. Определите, какой из участков, обозначенных на карте цифрами 1, 2 и 3, больше всего отвечает указанным требованиям. Для обоснования Вашего ответа приведите два довода.

Ответ запишите на бланке ответов № 2, указав сначала номер задания.

Обоснование:

Участок 3 – **на склоне южной** экспозиции (склон на юг); **рядом дорога**.

Участок 3 не подходит, т.к. далеко от дороги. Участок 2 не подходит, т.к. имеет северный склон.

Задания 9–12 выполняются с использованием приведённого ниже фрагмента топографической карты.

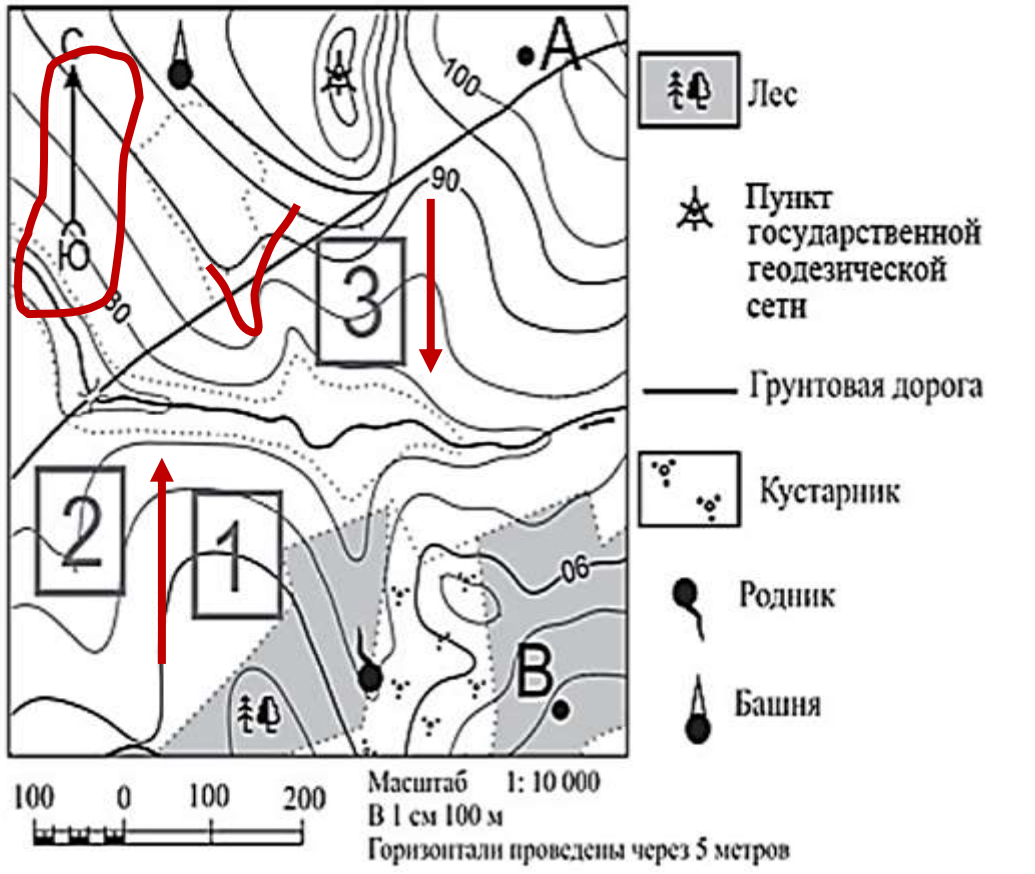

ПЛАН МЕСТНОСТИ

На рисунках представлены варианты профиля рельефа местности, построенные на основе карты по линии А–В разными учащимися. Какой из профилей построен верно?

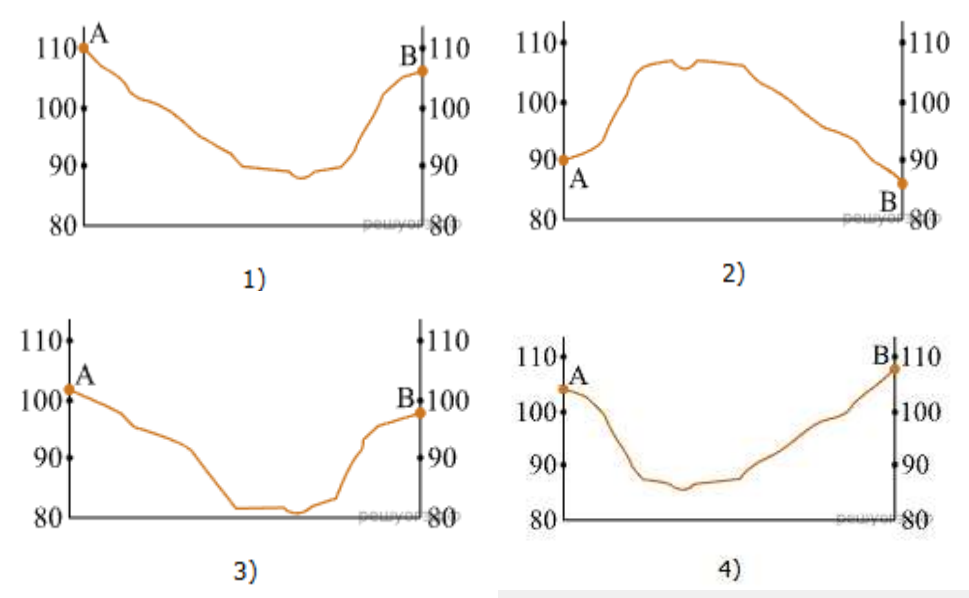

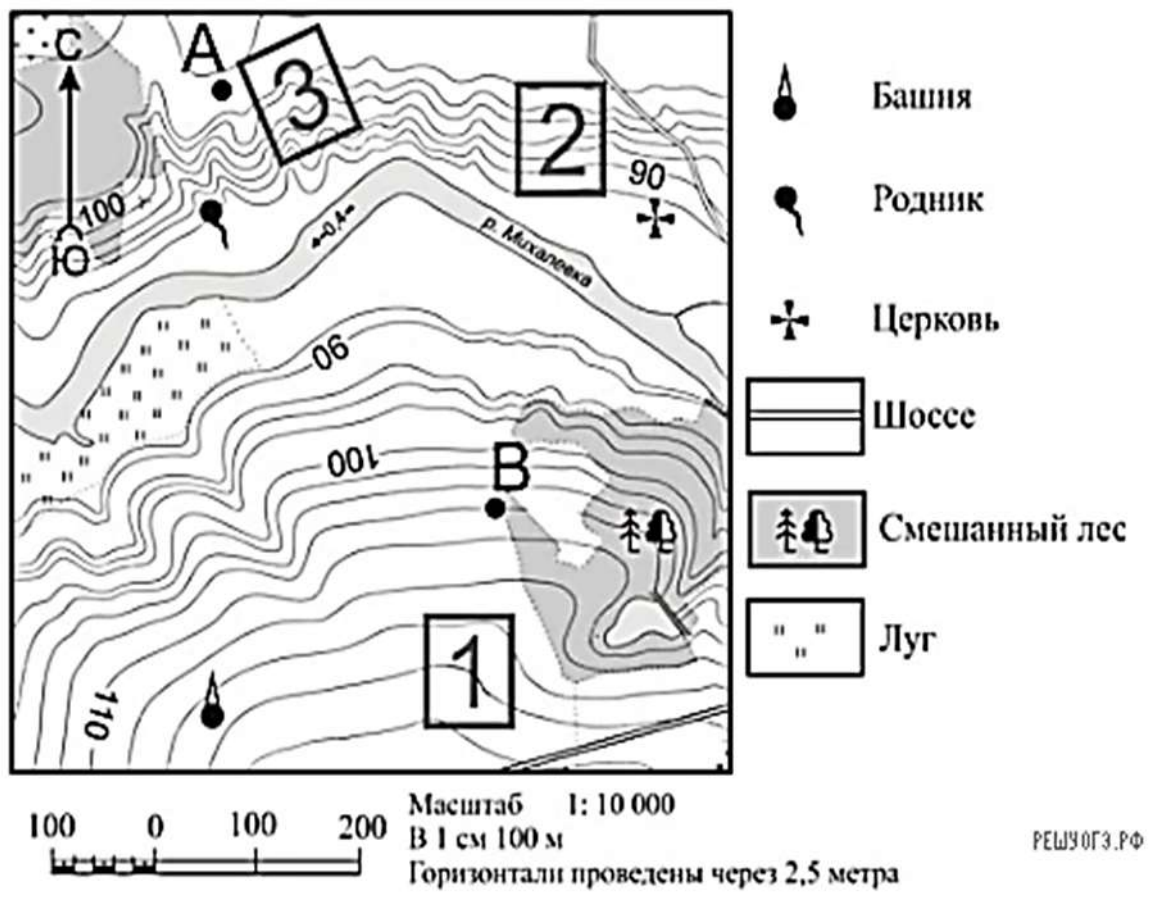

ПЛАН МЕСТНОСТИ

Фермер выбирает участок для закладки нового фруктового сада. Ему нужен участок, на котором весной рано сходит снег, а летом почва лучше всего прогревается солнцем. Он также должен иметь расположение, удобное для вывоза собранного урожая на консервный завод. Определите, какой из участков, обозначенных на карте цифрами 1, 2 и 3, больше всего отвечает указанным требованиям. Для обоснования Вашего ответа приведите два довода.

Ответ запишите на бланке ответов № 2, указав сначала номер задания.

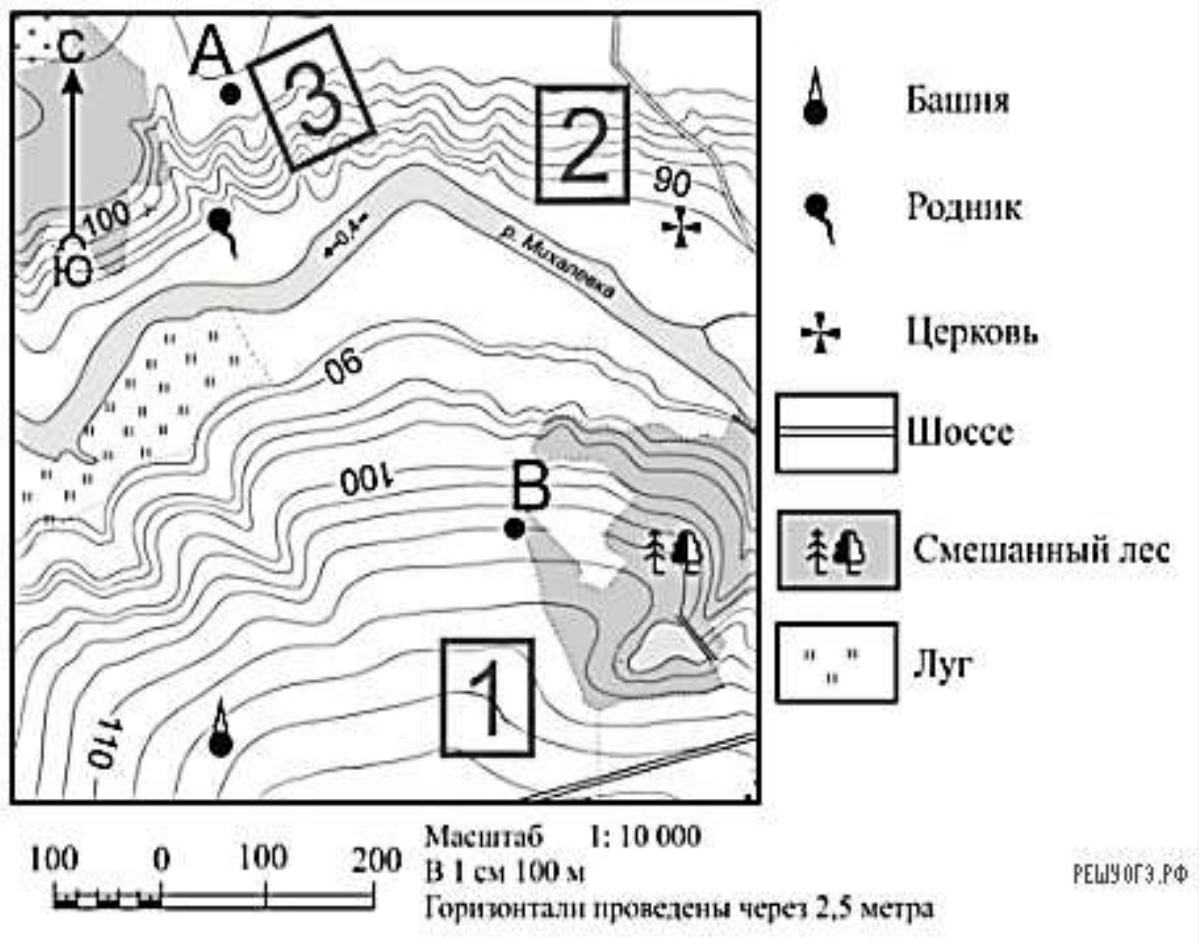

ПЛАН МЕСТНОСТИ

Участники школьной футбольной секции выбирают место для обустройства нового футбольного поля. Оцените, какой из участков, обозначенный на карте цифрами 1, 2 и 3, наиболее подходит для обустройства футбольного поля.

Для обоснования своего ответа приведите два довода.

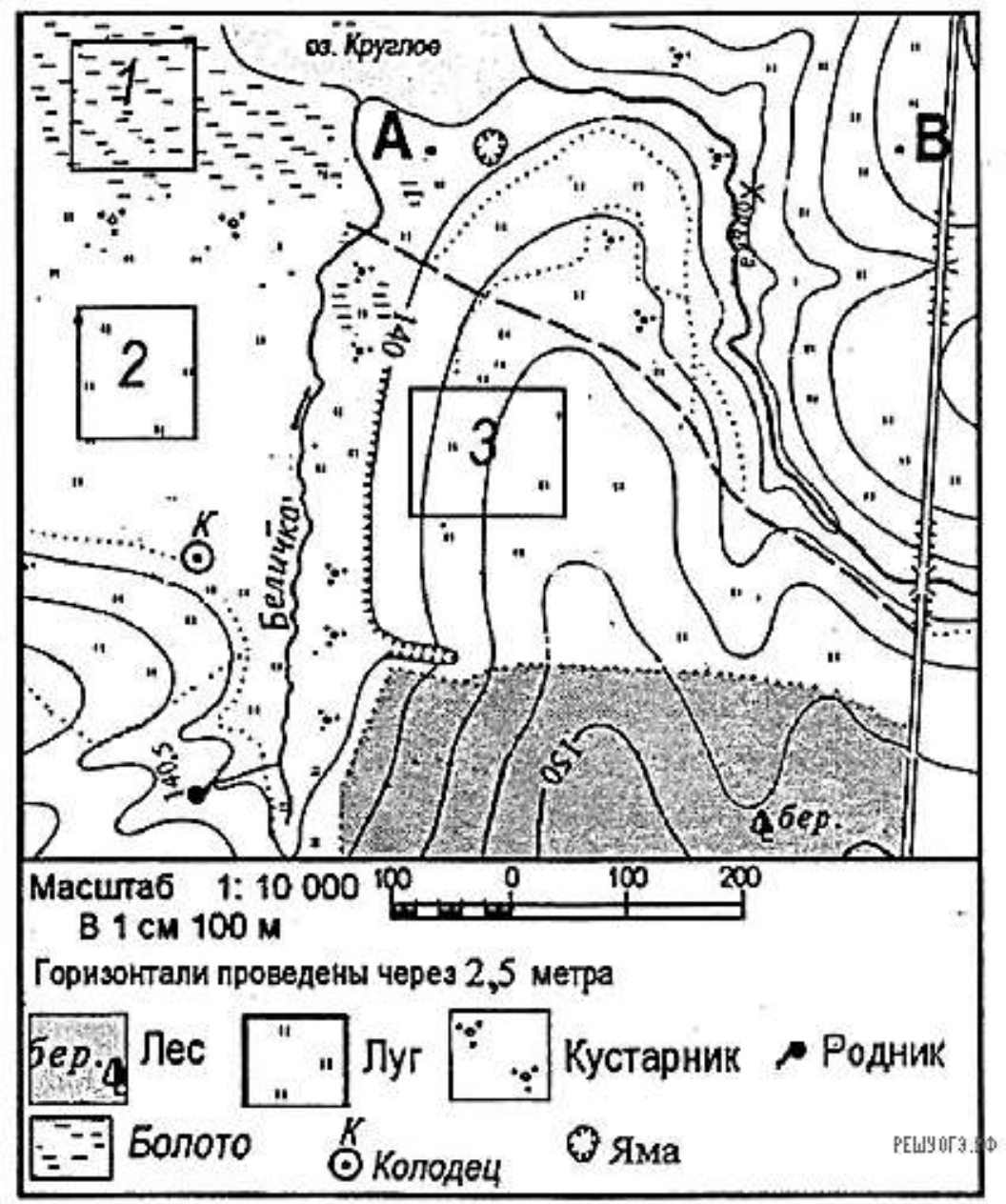

ПЛАН МЕСТНОСТИ

Участники школьной футбольной секции выбирают место для обустройства нового футбольного поля. Оцените, какой из участков, обозначенный на карте цифрами 1, 2 и 3, наиболее подходит для обустройства футбольного поля.

Для обоснования своего ответа приведите два довода.

Обоснование:

Участок 2 расположен **на лугу – нет препятствий, например**, деревьев или кустов; **на ровной горизонтальной** площадке.

Участок 3 не подходит, т.к. там **склон.** Участок 1 не подходит, т.к. там болото.

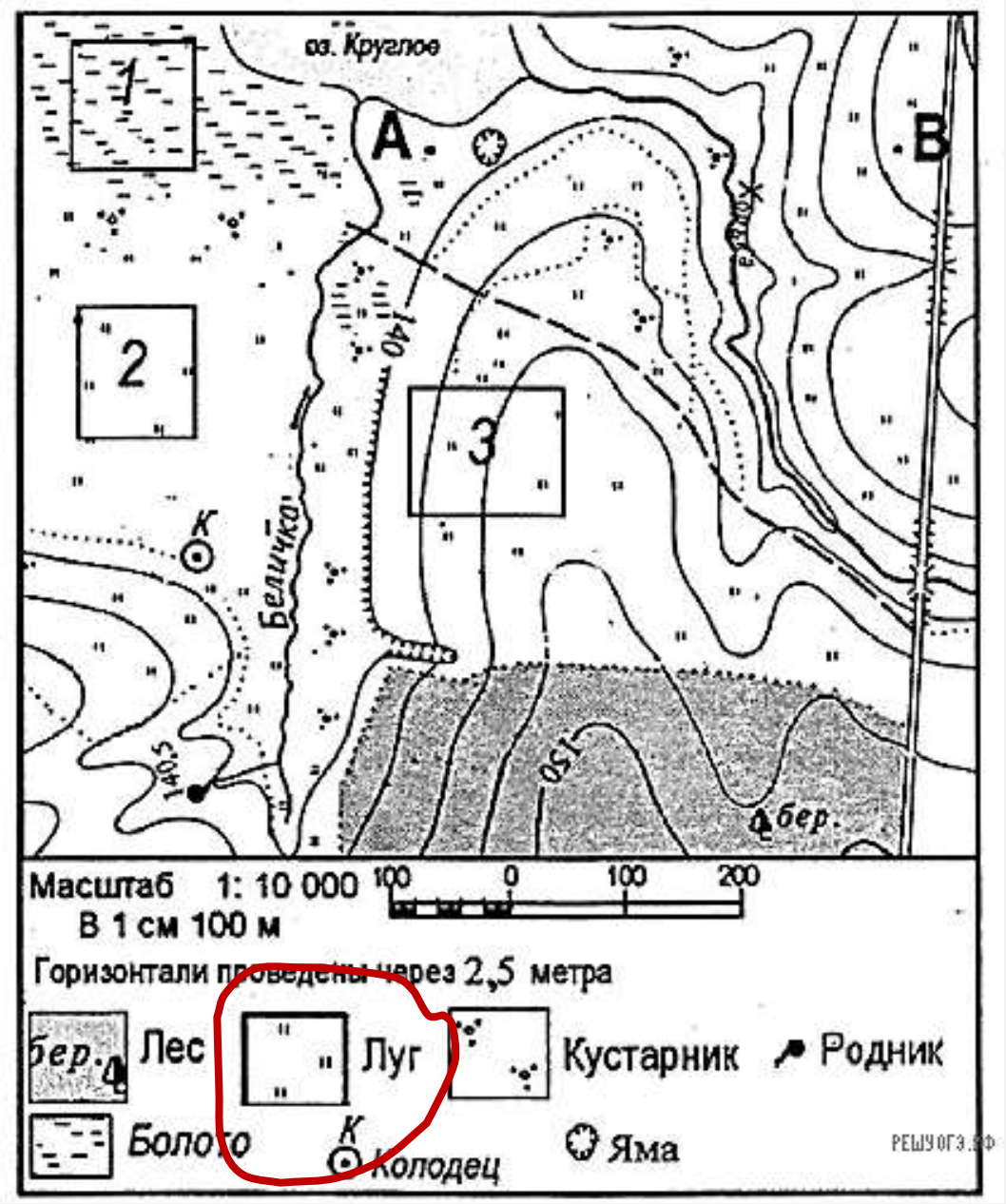

ПЛАН МЕСТНОСТИ

Участники школьной футбольной секции выбирают место для обустройства нового футбольного поля. Оцените, какой из участков, обозначенный на карте цифрами 1, 2 и 3, наиболее подходит для обустройства футбольного поля.

Для обоснования своего ответа приведите два довода.

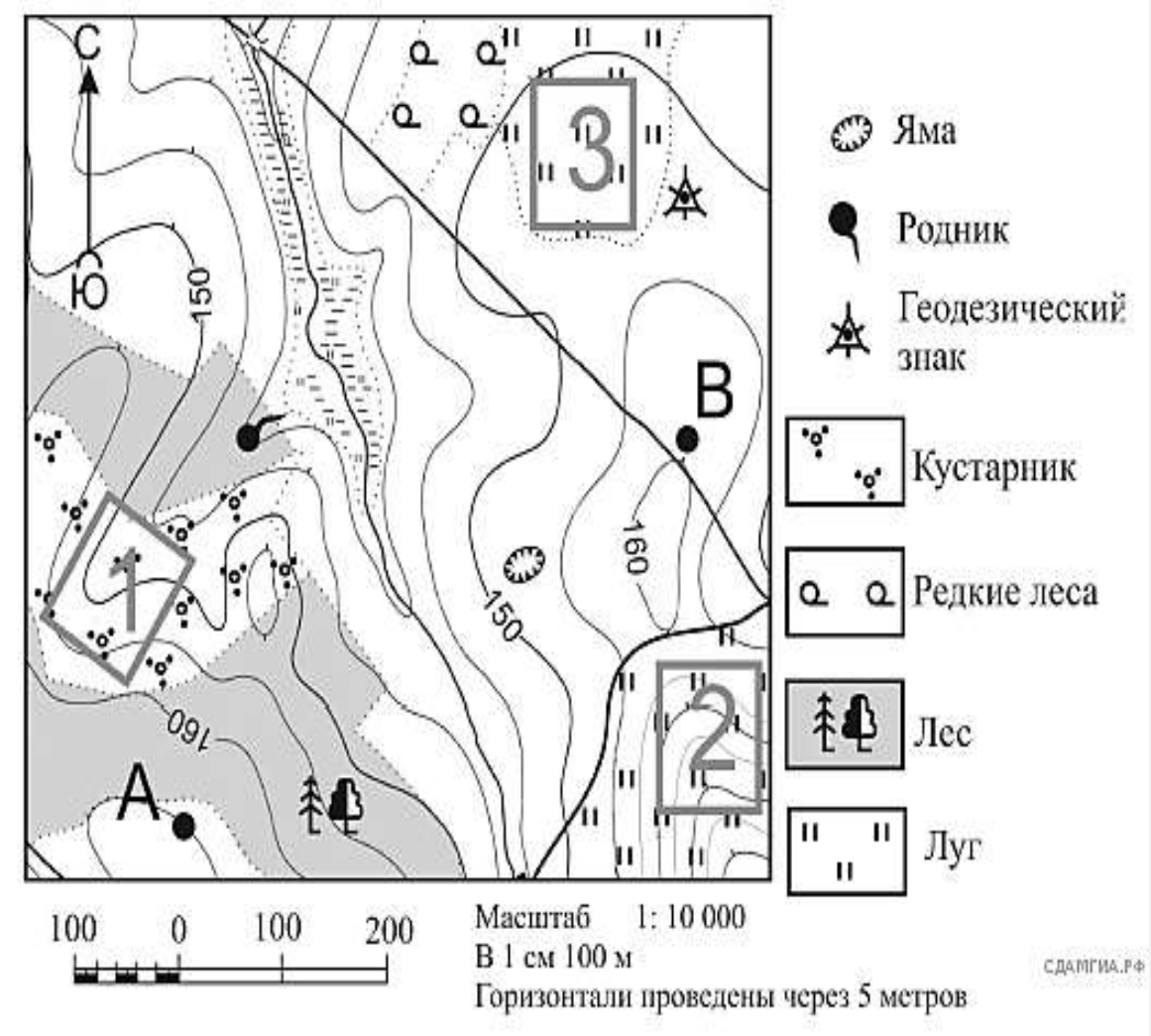

ПЛАН МЕСТНОСТИ

Школьники выбирают место для катания на санках. Оцените, какой из участков, обозначенных на карте цифрами 1, 2 и 3, больше всего подходит для этого.

Для обоснования своего ответа приведите два довода.

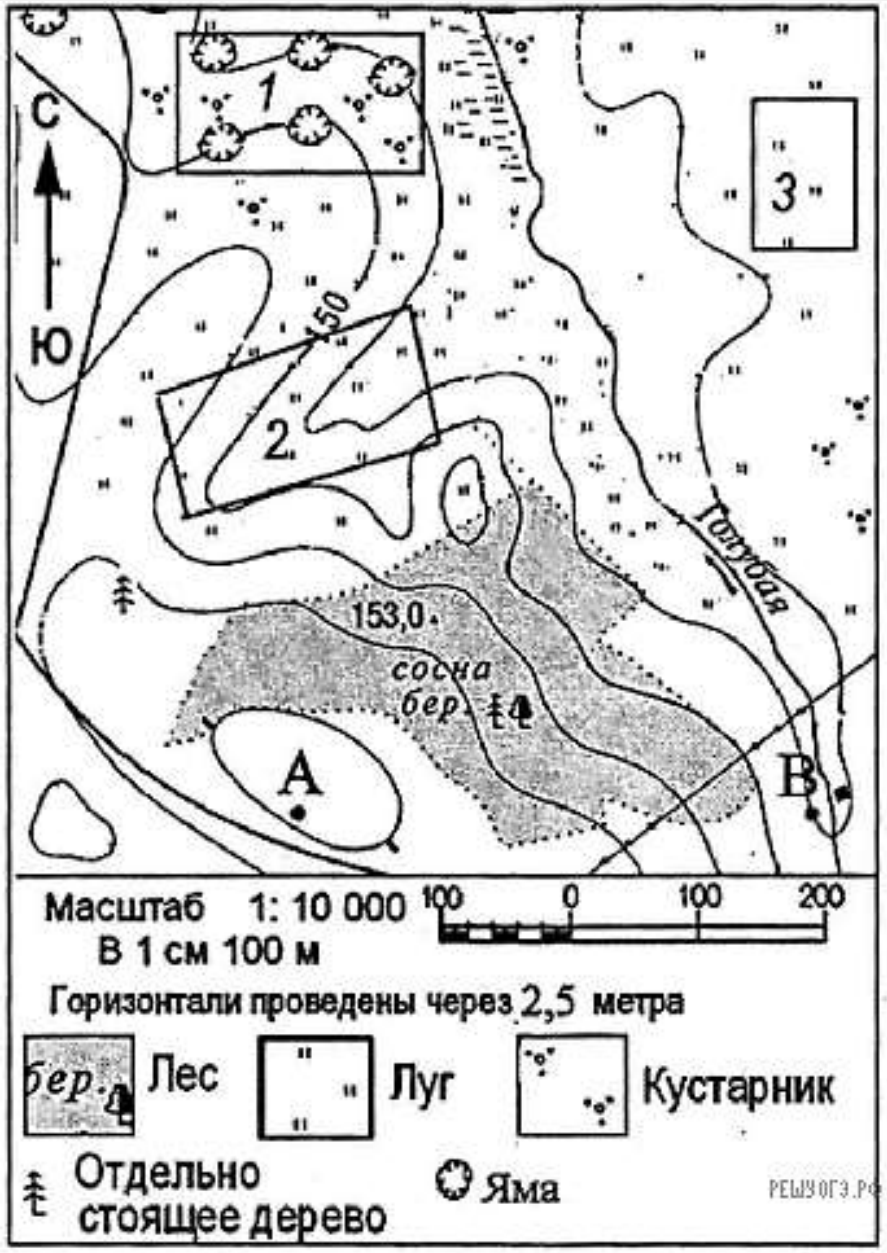

ПЛАН МЕСТНОСТИ

Школьники выбирают место для катания на санках. Оцените, какой из участков, обозначенных на карте цифрами 1, 2 и 3, больше всего подходит для этого.

Для обоснования своего ответа приведите два довода.

Обоснование:

Участок 2 подходит, т.к. здесь **есть склон**; нет **препятствий** для катания в виде **деревьев и кустов.**

Участок 1 не подходит, т.к. это заросли кустарника и ямы. Участок 3 тоже не подходит, т.к. это горизонтальная ровная площадка.

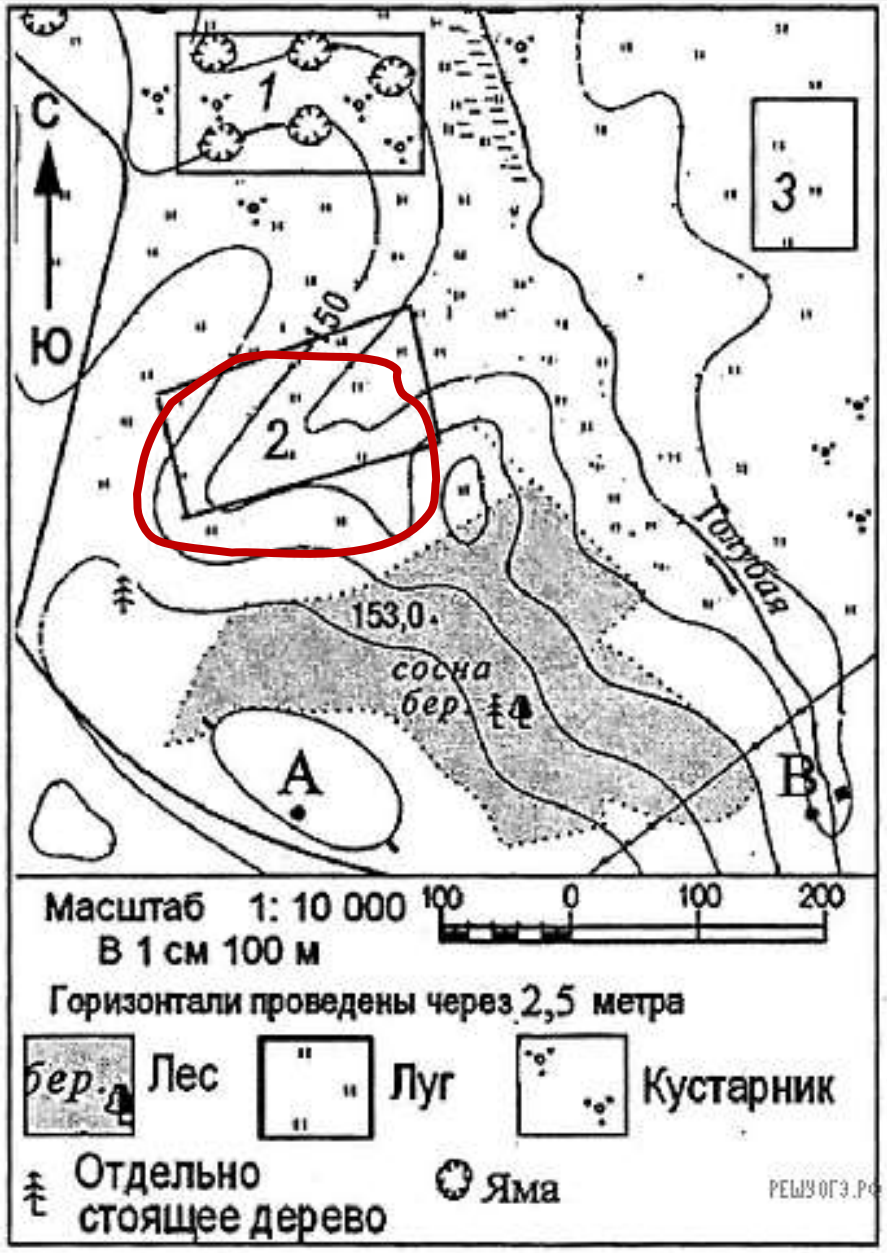

ПЛАН МЕСТНОСТИ

Школьники выбирают место для катания на санках. Оцените, какой из участков, обозначенных на карте цифрами 1, 2 и 3, больше всего подходит для этого.

Для обоснования своего ответа приведите два довода.

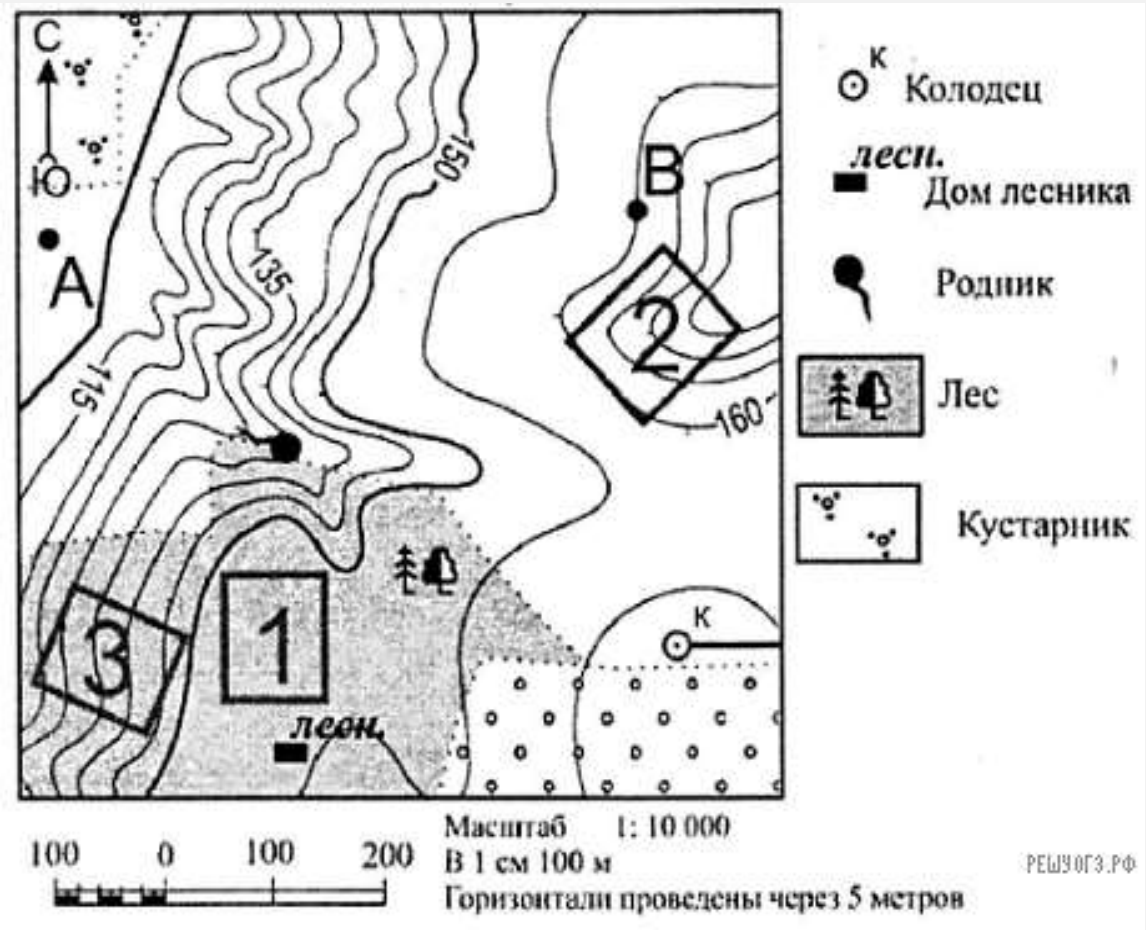

КЛИМАТОГРАММЫ

Проанализируйте климатограмму и определите, какой буквой на карте обозначен пункт, характеристики климата которого отражены в климатограмме.

1) A

2) B

3) C

4) D

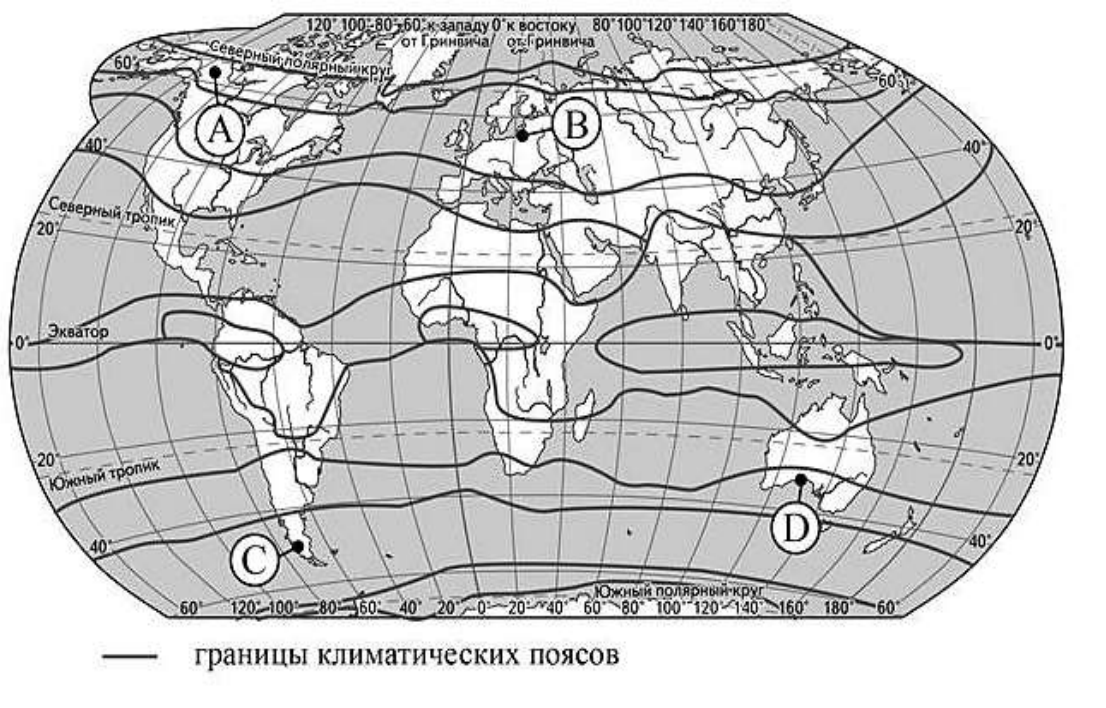

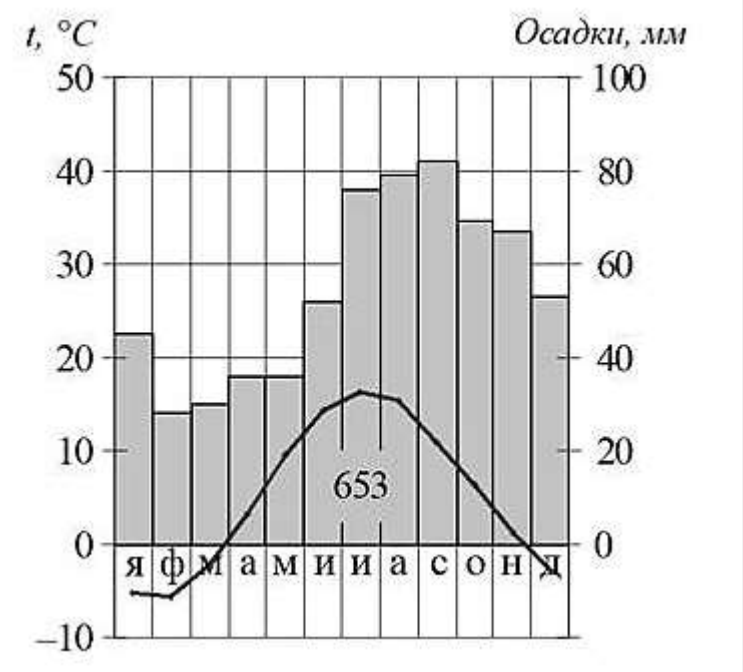

КЛИМАТОГРАММЫ

Проанализируйте климатограмму и определите, какой буквой на карте обозначен пункт, характеристики климата которого отражены в климатограмме.

1) A 2) B 3) C 4) D

Решение:

1. Определить – какое полушарие. Северное, т.к. летние месяцы – июнь – август. Значит ответ А или В.

2. Ответ – В. В – умеренный климатический пояс (область морского климата). Средняя температура зимой всего минус 5° С. А – субарктический климатический пояс. Достаточное количество осадков характерно для умеренного климатического пояса.

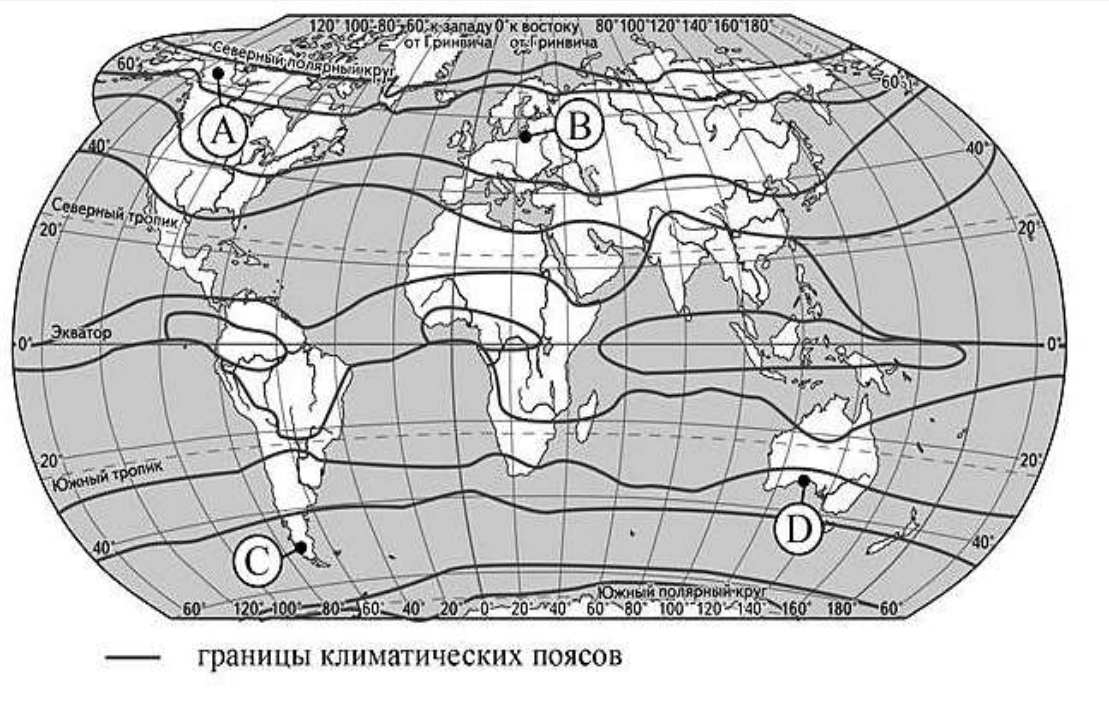

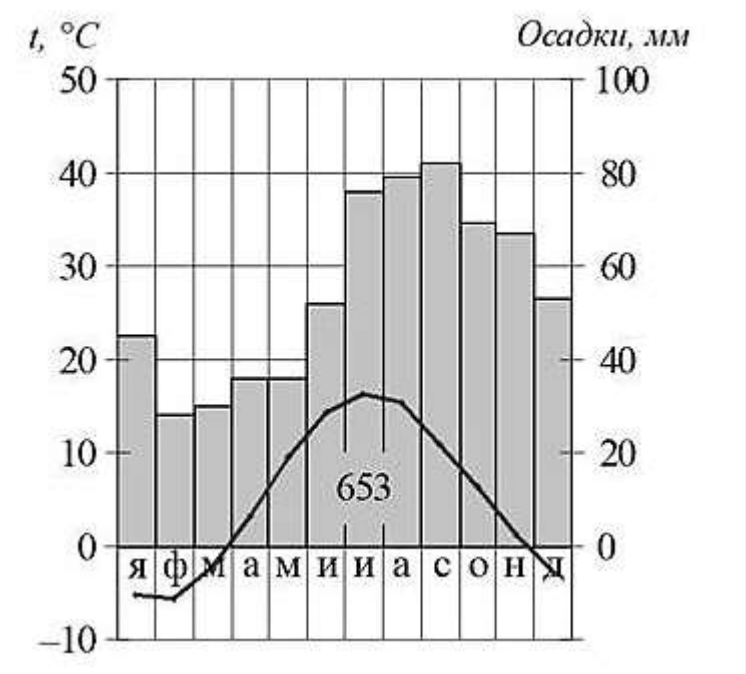

КЛИМАТОГРАММЫ

Проанализируйте климатограмму и определите, какой буквой на карте обозначен пункт, характеристики климата которого отражены в климатограмме.

1) A

2) B

3) C

4) D

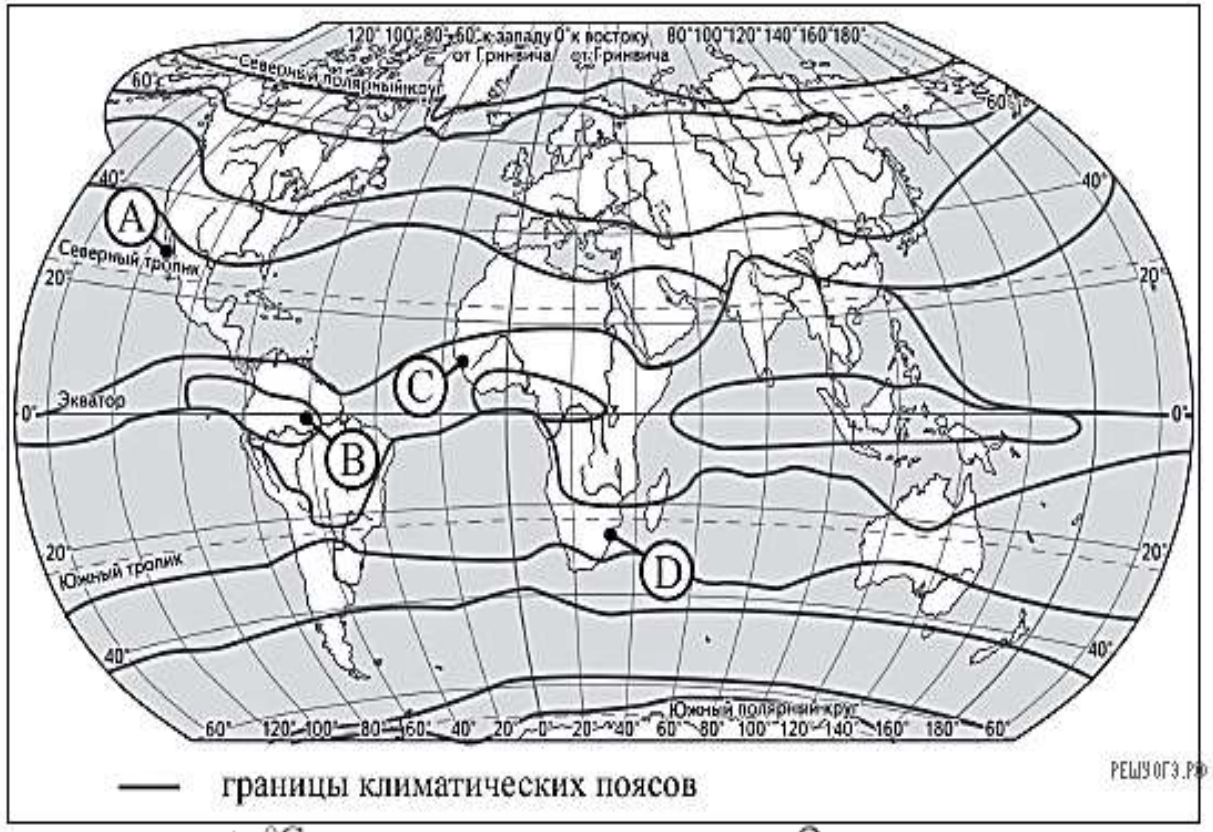

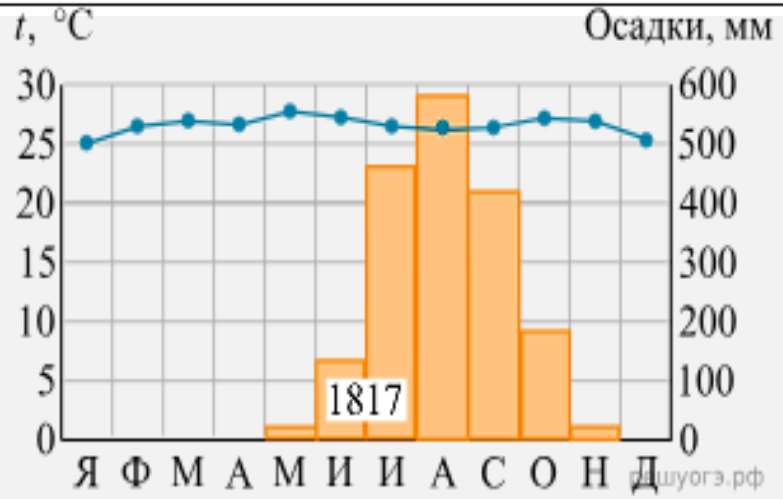

КЛИМАТОГРАММЫ

Проанализируйте климатограмму и определите, какой буквой на карте обозначен пункт, характеристики климата которого отражены в климатограмме.

1) A

2) B

3) C

4) D

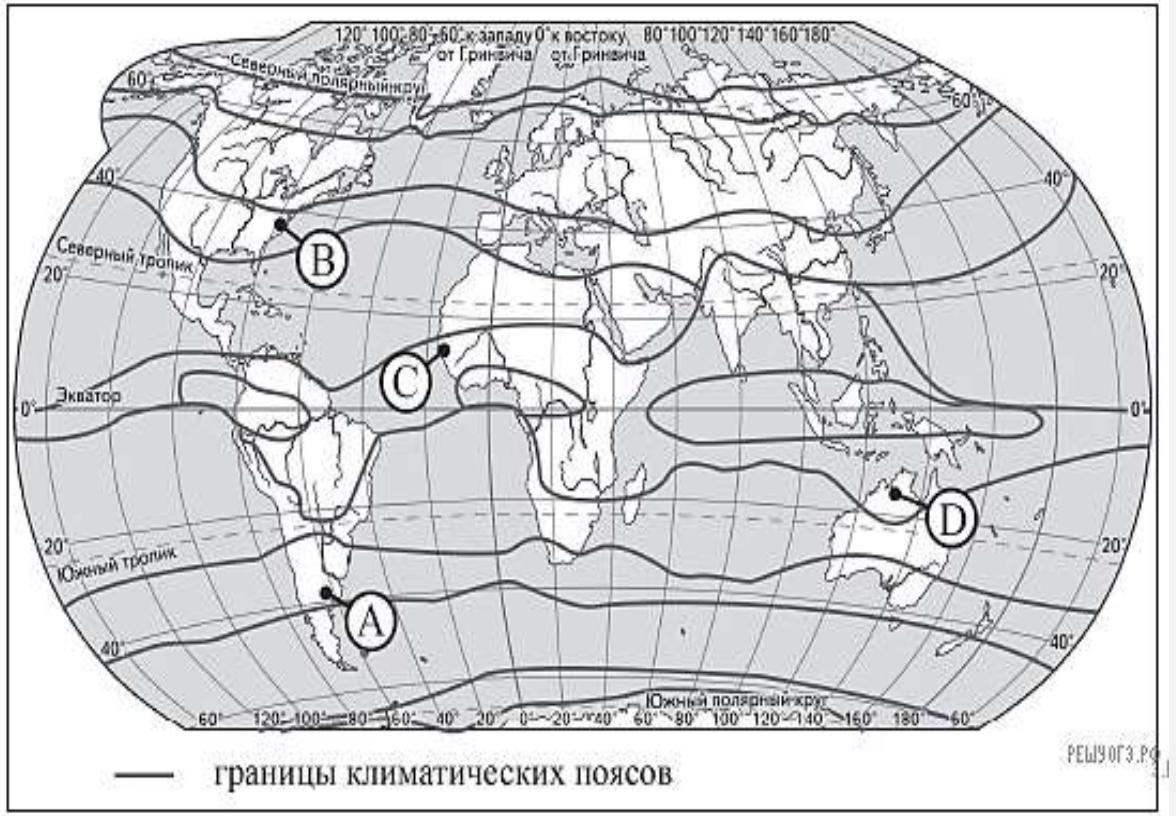

ГРАФИЧЕСКАЯ ИНФОРМАЦИЯ

16

Учащиеся проанализировали собранные данные для выявления зависимости между особенностями климата и географическим положением пункта. У всех учащихся выводы получились разные. Кто из них сделал верный вывод на основе представленных данных?

1) Елена: «Температура воздуха в июле последовательно понижается с увеличением абсолютной высоты пункта наблюдения».

2) Михаил: «Среднегодовое количество дней с атмосферными осадками последовательно возрастает при движении с северо-запада на юго-восток».

3) Любовь: «Температура воздуха в январе последовательно понижается при движении с северо-запада на юго-восток».

4) Мария: «Чем ниже расположен пункт, тем меньше среднегодовое количество дней с атмосферными осадками».

Ответ:

Задания 16 и 17 выполняются с использованием приведённого ниже текста.

Школьники из нескольких населённых пунктов России обменялись данными о средних температурах воздуха в январе и июле и другими климатическими данными, полученными на местных метеостанциях в результате многолетних наблюдений. Эти данные представлены в следующей таблице.

Пункт наблюдения	Географические координаты пункта наблюдения	Среднемесячная температура воздуха, °С		Среднегодовое количество дней с атмосферными осадками	Высота пункта наблюдения, м
		январь	июль		
Ухта	64° с.ш. 51° в.д.	–16,7	+16,4	221	149
Ханты-Мансийск	60° с.ш. 69° в.д.	–19,7	+17,9	204	40
Братск	56° с.ш. 102° в.д.	–20,6	+18,3	214	410
Благовещенск	50° с.ш. 127° в.д.	–23,4	+21,7	112	137

ГРАФИЧЕСКАЯ ИНФОРМАЦИЯ

16

1) Елена: «Температура воздуха в июле последовательно понижается с увеличением абсолютной высоты пункта наблюдения».

2) Михаил: «Среднегодовое количество дней с атмосферными осадками последовательно возрастает при движении с северо-запада на юго-восток».

3) Любовь: «Температура воздуха в январе последовательно понижается при движении с северо-запада на юго-восток».

4) Мария: «Чем ниже расположен пункт, тем меньше среднегодовое количество дней с атмосферными осадками».

Решение: внимательно читать таблицу и анализировать на черновике или КИМ.

1 Нет. Ханты-Мансийск +17,9° с (40 м), Благовещенск +21,7° (137 м).

2. Нет. Ухта – 221 день, Благовещенск – 112 дней.

3. Да. Ухта минус 16,7° С, ХМ минус 19,7° С, Братск минус 20,6° С, Благовещенск минус 23,4° С.

4. Нет. Ухта – 149 м, дней с осадками 221. Братск – 410 м, дней с осадками 214.

Задания 16 и 17 выполняются с использованием приведённого ниже текста.

Школьники из нескольких населённых пунктов России обменялись данными о средних температурах воздуха в январе и июле и другими климатическими данными, полученными на местных метеостанциях в результате многолетних наблюдений. Эти данные представлены в следующей таблице.

Пункт наблюдения	Географические координаты пункта наблюдения	Среднемесячная температура воздуха, °С		Среднегодовое количество дней с атмосферными осадками	Высота пункта наблюдения, м
		январь	июль		
Ухта	64° с.ш. 51° в.д.	–16,7	+16,4	221	149
Ханты-Мансийск	60° с.ш. 69° в.д.	–19,7	+17,9	204	40
Братск	56° с.ш. 102° в.д.	–20,6	+18,3	214	410
Благовещенск	50° с.ш. 127° в.д.	–23,4	+21,7	112	137

ГРАФИЧЕСКАЯ ИНФОРМАЦИЯ

17

В каком из перечисленных городов 22 июня продолжительность светового дня наибольшая?

1) Ухта

2) Ханты-Мансийск

3) Братск

4) Благовещенск

Ответ:

Задания 16 и 17 выполняются с использованием приведённого ниже текста.

Школьники из нескольких населённых пунктов России обменялись данными о средних температурах воздуха в январе и июле и другими климатическими данными, полученными на местных метеостанциях в результате многолетних наблюдений. Эти данные представлены в следующей таблице.

Пункт наблюдения	Географические координаты пункта наблюдения	Среднемесячная температура воздуха, °С		Среднегодовое количество дней с атмосферными осадками	Высота пункта наблюдения, м
		январь	июль		
Ухта	64° с.ш. 51° в.д.	–16,7	+16,4	221	149
Ханты-Мансийск	60° с.ш. 69° в.д.	–19,7	+17,9	204	40
Братск	56° с.ш. 102° в.д.	–20,6	+18,3	214	410
Благовещенск	50° с.ш. 127° в.д.	–23,4	+21,7	112	137

ДВИЖЕНИЯ ЗЕМЛИ

17

В каком из перечисленных городов 22 июня продолжительность светового дня наибольшая?

1) Ухта

2) Ханты-Мансийск

3) Братск

4) Благовещенск

Решение:

Продолжительность светового дня зависит от широты местности. Чем выше широта – тем меньше продолжительность дня 22 июня. Самая высокая широта – г. Ухта (64°)

Задания 16 и 17 выполняются с использованием приведённого ниже текста.

Школьники из нескольких населённых пунктов России обменялись данными о средних температурах воздуха в январе и июле и другими климатическими данными, полученными на местных метеостанциях в результате многолетних наблюдений. Эти данные представлены в следующей таблице.

Пункт наблюдения	Географические координаты пункта наблюдения	Среднемесячная температура воздуха, °С		Среднегодовое количество дней с атмосферными осадками	Высота пункта наблюдения, м
		январь	июль		
Ухта	64° с.ш. 51° в.д.	–16,7	+16,4	221	149
Ханты-Мансийск	60° с.ш. 69° в.д.	–19,7	+17,9	204	40
Братск	56° с.ш. 102° в.д.	–20,6	+18,3	214	410
Благовещенск	50° с.ш. 127° в.д.	–23,4	+21,7	112	137

ЗАДАНИЯ С ИСПОЛЬЗОВАНИЕМ ТЕКСТА

Территория какого из российских полуостровов упоминается в тексте?

Ответ: _____ полуостров.

В тексте говорится о химическом выветривании. Назовите ещё один (любой) вид выветривания.

Ответ запишите на бланке ответов № 2, сначала указав номер задания.

Объясните, с каким внутренним (эндогенным) процессом связано залегание известняка в горах, о которых говорится в тексте.

Ответ запишите на бланке ответов № 2, сначала указав номер задания.

Задания 27–29 выполняются с использованием приведённого ниже текста.

Химическое выветривание

Просачиваясь по трещинам в глубь горных пород, вода постепенно уносит с собой растворённые частицы. Не все горные породы одинаково хорошо растворяются водой; существуют породы, например известняк, соль, гипс, которые растворяются очень быстро. Трещины, по которым просачивается вода, постепенно увеличиваются. Если трещина вертикальная, то она преобразуется в глубокую воронку или естественную шахту; горизонтальные трещины превращаются в подземные пещеры. Большие пещеры известны в окрестностях Бахчисарая (в горах к югу от Симферополя) и на горе Чатыр-Даг. Одной из водорастворимых пород, подверженных химическому выветриванию, слагающих поверхность этих гор, является известняк. Известняк образовался из останков морских организмов десятки миллионов лет назад.

ЗАДАНИЯ С ИСПОЛЬЗОВАНИЕМ ТЕКСТА

Территория какого из российских полуостровов упоминается в тексте?

Крым

В тексте говорится о химическом выветривании. Назовите ещё один (любой) вид выветривания.

Биологическое/ физическое выветривание

Главная ошибка – пытаются найти ответ в тексте.

Объясните, с каким внутренним (эндогенным) процессом связано залегание известняка в горах, о которых говорится в тексте.

Содержание верного ответа и указания по оцениванию (допускаются иные формулировки ответа, не искажающие его смысла)	**Баллы**
В ответе говорится о процессе горообразования ИЛИ о поднятии территории ИЛИ о движении земной коры	
Ответ содержит названный выше элемент	1
Все ответы, которые не соответствуют вышеуказанному критерию выставления оценки в 1 балл	0
Максимальный балл	*1*

Задания 27–29 выполняются с использованием приведённого ниже текста.

Химическое выветривание

Просачиваясь по трещинам в глубь горных пород, вода постепенно уносит с собой растворённые частицы. Не все горные породы одинаково хорошо растворяются водой; существуют породы, например известняк, соль, гипс, которые растворяются очень быстро. Трещины, по которым просачивается вода, постепенно увеличиваются. Если трещина вертикальная, то она преобразуется в глубокую воронку или естественную шахту; горизонтальные трещины превращаются в подземные пещеры. Большие пещеры известны в окрестностях Бахчисарая (в горах к югу от Симферополя) и на горе Чатыр-Даг. Одной из водорастворимых пород, подверженных химическому выветриванию, слагающих поверхность этих гор, является известняк. Известняк образовался из останков морских организмов десятки миллионов лет назад.

ЗАДАНИЯ С ИСПОЛЬЗОВАНИЕМ ТЕКСТА

На территории какого субъекта РФ находится Кольская ГМК?

Ответ: _____ обл.

С чем связано наличие большого количества рудных полезных ископаемых на территории Кольского полуострова?

Ответ запишите на чистом листе, сначала указав номер задания.

Объясните, почему предприятие по производству тяжёлых цветных металлов размещено у источников руды.

Ответ запишите на чистом листе, сначала указав номер задания.

Задания 27–29 выполняются с использованием приведённого ниже текста.

Кольская ГМК

Кольская горно-металлургическая компания – дочернее предприятие ПАО ГМК «Норильский никель» – была создана в 1998 году. Единое горно-металлургическое производство по добыче сульфидных медно-никелевых руд и производству цветных металлов. Производственные площади Кольской ГМК расположены в трёх населённых пунктах: посёлок Никель, город Заполярный и город Мончегорск. По отношению ко всем этим населённым пунктам компания является градообразующим предприятием.

В Кольской ГМК и её дочерних предприятиях трудятся около 13 тысяч человек. Предприятия выпускают следующие виды продукции: электролитный никель и медь, никелевые порошки, кобальтовый концентрат, серную кислоту и др. Продукция отличается высоким качеством и соответствует всем требованиям российских и международных стандартов.

ЗАДАНИЯ С ИСПОЛЬЗОВАНИЕМ ТЕКСТА

С чем связано наличие большого количества рудных полезных ископаемых на территории Кольского полуострова?

Содержание верного ответа и указания по оцениванию (допускаются иные формулировки ответа, не искажающие его смысла)	**Баллы**
В ответе говорится о том, что Кольский полуостров расположен в Восточной части Балтийского кристаллического щита. ИЛИ В ответе говорится о том, что Кольский полуостров находится в зоне выхода кристаллического фундамента архейско-протерозойского возраста	
Ответ содержит один из названных выше элементов	1
Все ответы, которые не соответствуют указанному выше критерию выставления оценки в 1 балл	0
Максимальный балл	*1*

Задания 27–29 выполняются с использованием приведённого ниже текста.

Кольская ГМК

Кольская горно-металлургическая компания – дочернее предприятие ПАО ГМК «Норильский никель» – была создана в 1998 году. Единое горно-металлургическое производство по добыче сульфидных медно-никелевых руд и производству цветных металлов. Производственные площади Кольской ГМК расположены в трёх населённых пунктах: посёлок Никель, город Заполярный и город Мончегорск. По отношению ко всем этим населённым пунктам компания является градообразующим предприятием.

В Кольской ГМК и её дочерних предприятиях трудятся около 13 тысяч человек. Предприятия выпускают следующие виды продукции: электролитный никель и медь, никелевые порошки, кобальтовый концентрат, серную кислоту и др. Продукция отличается высоким качеством и соответствует всем требованиям российских и международных стандартов.

ЗАДАНИЯ С ИСПОЛЬЗОВАНИЕМ ТЕКСТА

Объясните, почему предприятие по производству тяжёлых цветных металлов размещено у источников руды.

Содержание верного ответа и указания по оцениванию (допускаются иные формулировки ответа, не искажающие его смысла)	**Баллы**
В ответе говорится о том, что в рудах тяжёлых металлов очень низкое содержание полезных элементов, поэтому их нецелесообразно перевозить на большие расстояния	
Ответ содержит названный выше элемент	1
Все ответы, которые не соответствую вышеуказанным критериям выставления оценки в 1 балл	0
Максимальный балл	*1*

Задания 27–29 выполняются с использованием приведённого ниже текста.

Кольская ГМК

Кольская горно-металлургическая компания – дочернее предприятие ПАО ГМК «Норильский никель» – была создана в 1998 году. Единое горно-металлургическое производство по добыче сульфидных медно-никелевых руд и производству цветных металлов. Производственные площади Кольской ГМК расположены в трёх населённых пунктах: посёлок Никель, город Заполярный и город Мончегорск. По отношению ко всем этим населённым пунктам компания является градообразующим предприятием.

В Кольской ГМК и её дочерних предприятиях трудятся около 13 тысяч человек. Предприятия выпускают следующие виды продукции: электролитный никель и медь, никелевые порошки, кобальтовый концентрат, серную кислоту и др. Продукция отличается высоким качеством и соответствует всем требованиям российских и международных стандартов.

ЗАДАНИЯ С ИСПОЛЬЗОВАНИЕМ ТЕКСТА

Как называется ветер, который дует в сторону Новороссийска с северо-востока и представляет опасность для некоторых видов судов?

Ответ: _____.

На побережье какого моря и в каком субъекте РФ расположен Новороссийский морской порт?

Ответ запишите на чистом листе, сначала указав номер задания.

Объясните, почему морской транспорт является одним из самых дешёвых видов транспорта.

Ответ запишите на чистом листе, сначала указав номер задания.

Задания 27–29 выполняются с использованием приведённого ниже текста.

Порт-рекордсмен

Морской транспорт является одним из самых дешёвых видов транспорта. Он играет важную роль в российской экономике (2/3 от общей протяжённости российских границ проходят по морю). Новороссийский морской порт – один из крупнейших портов мира и крупнейший порт России. Он является рекордсменом среди портов России по протяжённости причальной линии, достигающей в длину 8,3 км. Навигация в порту осуществляется круглый год, хотя и может прерываться в зимний период, когда с северо-востока дует ветер, представляющий опасность для некоторых видов судов. Глубина вдоль наливных терминалов порта позволяет принимать крупные танкеры. Общий грузооборот составляет 112,5 млн тонн.

ЗАДАНИЯ С ИСПОЛЬЗОВАНИЕМ ТЕКСТА

Как называется ветер, который дует в сторону Новороссийска с северо-востока и представляет опасность для некоторых видов судов?

Бора

На побережье какого моря и в каком субъекте РФ расположен Новороссийский морской порт?

Содержание верного ответа и указания по оцениванию (допускаются иные формулировки ответа, не искажающие его смысла)	Баллы
В ответе говорится о том, что Новороссийский морской порт находится на берегу Чёрного моря и на территории Краснодарского края	
Ответ содержит названный выше элемент	1
Все ответы, которые не соответствуют вышеуказанному критерию выставления оценки в 1 балл	0
Максимальный балл	*1*

Задания 27–29 выполняются с использованием приведённого ниже текста.

Порт-рекордсмен

Морской транспорт является одним из самых дешёвых видов транспорта. Он играет важную роль в российской экономике (2/3 от общей протяжённости российских границ проходят по морю). Новороссийский морской порт – один из крупнейших портов мира и крупнейший порт России. Он является рекордсменом среди портов России по протяжённости причальной линии, достигающей в длину 8,3 км. Навигация в порту осуществляется круглый год, хотя и может прерываться в зимний период, когда с северо-востока дует ветер, представляющий опасность для некоторых видов судов. Глубина вдоль наливных терминалов порта позволяет принимать крупные танкеры. Общий грузооборот составляет 112,5 млн тонн.

ЗАДАНИЯ С ИСПОЛЬЗОВАНИЕМ ТЕКСТА

Объясните, почему морской транспорт является одним из самых дешёвых видов транспорта.

Содержание верного ответа и указания по оцениванию (допускаются иные формулировки ответа, не искажающие его смысла)	**Баллы**
В ответе говорится о том, что морской транспорт имеет большую грузоподъёмность и практически не имеет ограничений по пропускной способности ИЛИ что морской транспорт позволяет перевозить значительные партии груза и суда движутся по относительно прямолинейным трассам	
Ответ содержит названный выше элемент	1
Все ответы, которые не соответствуют вышеуказанному критерию выставления оценки в 1 балл	0
Максимальный балл	*1*

Задания 27–29 выполняются с использованием приведённого ниже текста.

Порт-рекордсмен

Морской транспорт является одним из самых дешёвых видов транспорта. Он играет важную роль в российской экономике (2/3 от общей протяжённости российских границ проходят по морю). Новороссийский морской порт – один из крупнейших портов мира и крупнейший порт России. Он является рекордсменом среди портов России по протяжённости причальной линии, достигающей в длину 8,3 км. Навигация в порту осуществляется круглый год, хотя и может прерываться в зимний период, когда с северо-востока дует ветер, представляющий опасность для некоторых видов судов. Глубина вдоль наливных терминалов порта позволяет принимать крупные танкеры. Общий грузооборот составляет 112,5 млн тонн.

ОПРЕДЕЛЕНИЕ СТРАНЫ ИЛИ РЕГИОНА РОССИИ

Определите страну по её краткому описанию.

По площади территории и численности населения эта страна – одна из крупнейших в мире, она занимает около половины площади материка, на котором находится. Омывается водами Атлантического океана. По её территории протекает самая полноводная река земного шара. Страна богата рудными полезными ископаемыми и лесными ресурсами. В ней много крупных городов, основная часть которых сосредоточена на побережье океана.

Ответ: _____.

30 Определите страну по её краткому описанию.

По площади территории и численности населения эта страна – одна из крупнейших в мире, она занимает около половины площади материка, на котором находится. Омывается водами Атлантического океана. По её территории протекает самая полноводная река земного шара. Страна богата рудными полезными ископаемыми и лесными ресурсами. В ней много крупных городов, основная часть которых сосредоточена на побережье океана.

Ответ: _____.

ОПРЕДЕЛЕНИЕ СТРАНЫ ИЛИ РЕГИОНА РОССИИ

Определите страну по её краткому описанию.

По площади территории и численности населения эта страна – одна из крупнейших в мире, она занимает 2. **около половины площади материка**, на котором находится. Омывается водами Атлантического океана. По её территории протекает 1. **самая полноводная река земного шара.** Страна богата рудными полезными ископаемыми и 3. **лесными ресурсами.** В ней много крупных городов, основная часть которых сосредоточена на побережье океана.

Решение:

Найти слова-маркеры.

Ответ – Бразилия.

30 Определите страну по её краткому описанию.

По площади территории и численности населения эта страна – одна из крупнейших в мире, она занимает около половины площади материка, на котором находится. Омывается водами Атлантического океана. По её территории протекает самая полноводная река земного шара. Страна богата рудными полезными ископаемыми и лесными ресурсами. В ней много крупных городов, основная часть которых сосредоточена на побережье океана.

Ответ: _____.

ОПРЕДЕЛЕНИЕ СТРАНЫ ИЛИ РЕГИОНА РОССИИ

Определите город по его краткому описанию.

Этот город, находящийся на границе Европы и Азии, был заложен в первой половине XIX в., в пойме реки Исети, в самой пониженной части гор «посредине всех заводов». До начала XX в. город был центром горнозаводского дела, в том числе промышленной обработки камня (яшмы, малахита, орлеца и др.). Сейчас это город-миллионер с мощной промышленностью (производства ВПК, тяжёлое и точное машиностроение, химическая промышленность и др.), крупный центр науки, культуры, искусства. Название этого города не совпадает с названием области, административным центром которой он является.

Ответ: _____.

30 Определите город по его краткому описанию.

Этот город, находящийся на границе Европы и Азии, был заложен в первой половине XIX в., в пойме реки Исети, в самой пониженной части гор «посредине всех заводов». До начала XX в. город был центром горнозаводского дела, в том числе промышленной обработки камня (яшмы, малахита, орлеца и др.). Сейчас это город-миллионер с мощной промышленностью (производства ВПК, тяжёлое и точное машиностроение, химическая промышленность и др.), крупный центр науки, культуры, искусства. Название этого города не совпадает с названием области, административным центром которой он является.

Ответ: _____.

ОПРЕДЕЛЕНИЕ СТРАНЫ ИЛИ РЕГИОНА РОССИИ

Определите город по его краткому описанию.

Этот город, 1. **находящийся на границе Европы и Азии,** был заложен в первой половине XIX в., в пойме реки Исети, в самой пониженной части гор «посредине всех заводов». До начала XX в. город был центром горнозаводского дела, в том числе промышленной обработки камня (яшмы, малахита, орлеца и др.). Сейчас это 2. **город-миллионер** с мощной промышленностью (производства ВПК, тяжёлое и точное машиностроение, химическая промышленность и др.), крупный центр науки, культуры, искусства. 3. **Название этого города не совпадает с названием области**, административным центром которой он является.

Ответ: Екатеринбург

30 Определите город по его краткому описанию.

Этот город, находящийся на границе Европы и Азии, был заложен в первой половине XIX в., в пойме реки Исети, в самой пониженной части гор «посредине всех заводов». До начала XX в. город был центром горнозаводского дела, в том числе промышленной обработки камня (яшмы, малахита, орлеца и др.). Сейчас это город-миллионер с мощной промышленностью (производства ВПК, тяжёлое и точное машиностроение, химическая промышленность и др.), крупный центр науки, культуры, искусства. Название этого города не совпадает с названием области, административным центром которой он является.

Ответ: _____.

ОПРЕДЕЛЕНИЕ СТРАНЫ ИЛИ РЕГИОНА РОССИИ

Определите регион России по его краткому описанию.

Этот край находится в восточной части России. Административный центр края, расположенный на побережье одного из морей, омывающих Россию, был основан в XIX веке. Это город – порт, являющийся также крупным промышленным центром и важным транспортным узлом: в нём находится конечный пункт одной из главных железнодорожных магистралей страны.

Ответ: _____ край

30 Определите регион России по его краткому описанию.

Этот край находится в восточной части России. Административный центр края, расположенный на побережье одного из морей, омывающих Россию, был основан в XIX веке. Это город – порт, являющийся также крупным промышленным центром и важным транспортным узлом: в нём находится конечный пункт одной из главных железнодорожных магистралей страны.

Ответ: _____ край.

ВСЕМ СПАСИБО ЗА ВНИМАНИЕ!
ВСЕМ СПАСИБО ЗА РАБОТУ!